Disegna le forme mancanti per arrivare a 5.

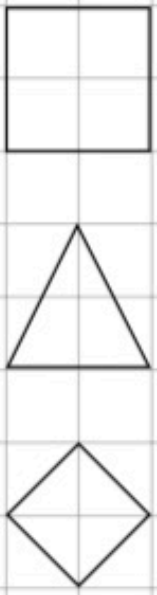

Disegna le forme mancanti per arrivare a 7.

NOME: .....

COGNOME: .....

DATA: .....

Contare in senso progressivo e regressivo e per salti di 2, 5, 10

© Gruppo Editoriale il capitello

Ordina le quantità collegandole alla linea dei numeri.

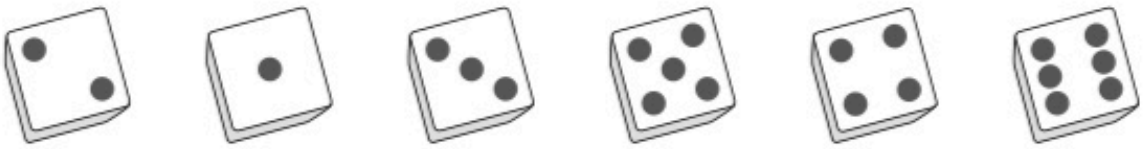

1 2 3 4 5 6



1 2 3 4 5 6 7 8 9



1 2 3 4 5 6 7 8 9

NOME: .....

COGNOME: .....

DATA: .....

Contare in senso progressivo e regressivo e per salti di 2, 5, 10

© Gruppo Editoriale il capitello

Completa.

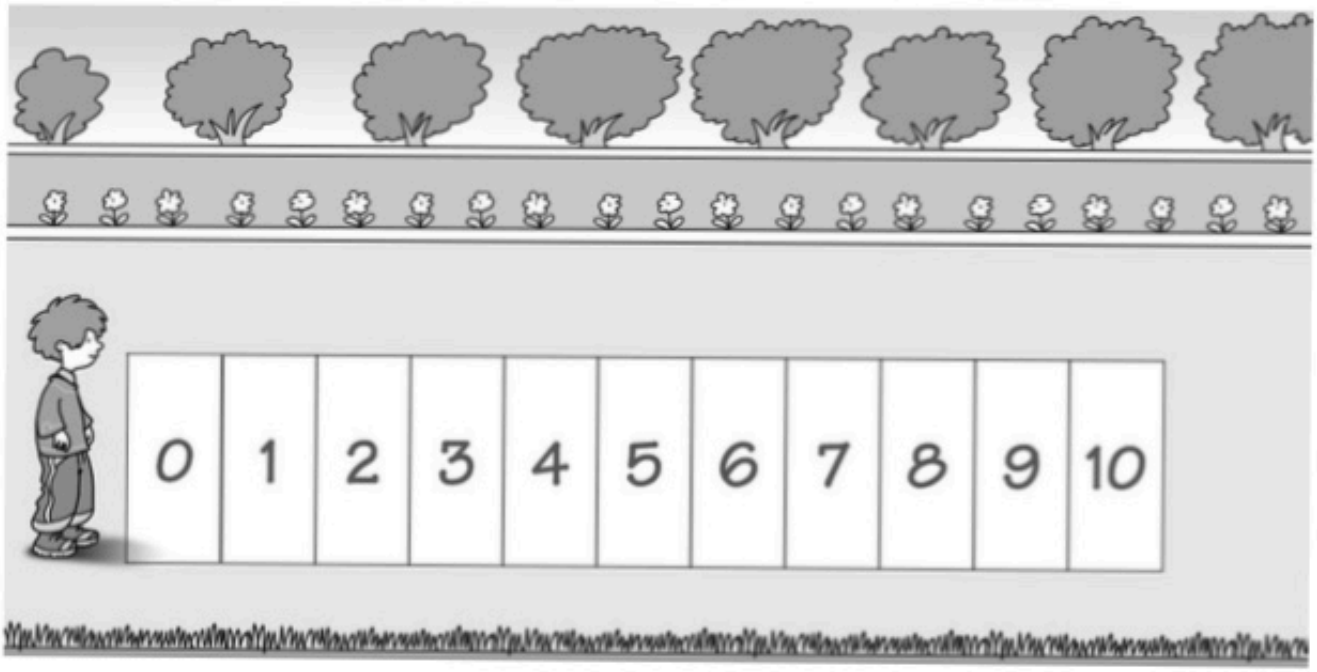

- Subito prima del 5 c'è il numero .....
- Subito dopo il 5 c'è il numero .....
- Il numero 5 sta tra il numero ..... e il numero .....
- Subito dopo il 9 c'è il numero .....
- Subito prima del 9 c'è il numero .....
- Il numero 9 sta tra il numero ..... e il numero .....
- Il numero 7 sta subito dopo il numero .....
- Il numero 8 sta subito dopo il numero .....

NOME: .....

COGNOME: .....

DATA: .....

Contare in senso progressivo e regressivo e per salti di 2, 5, 10

© Gruppo Editoriale il capitello

Completa le sequenze numeriche.

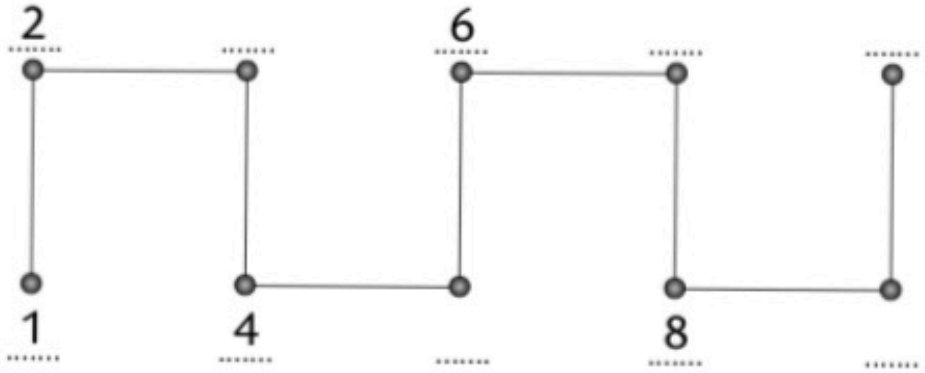

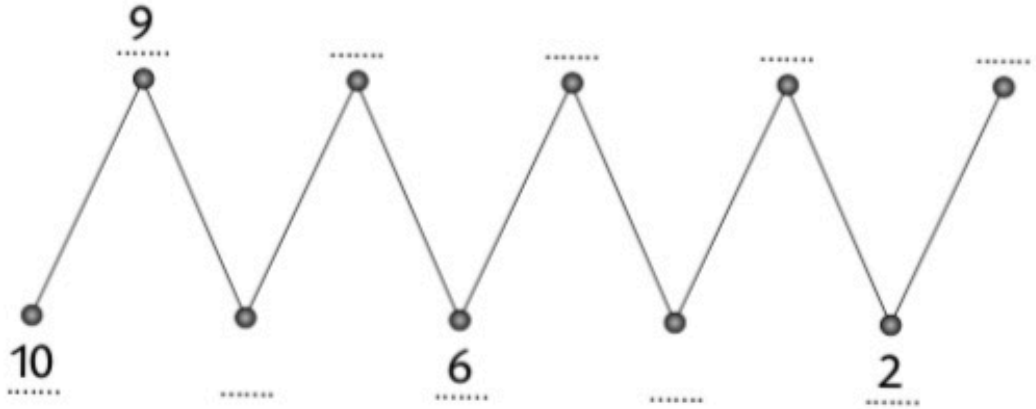

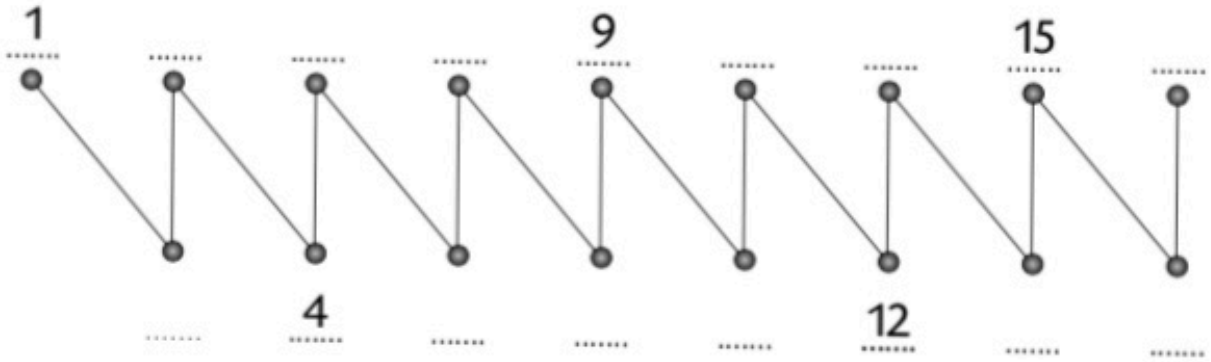

NOME: .....

COGNOME: .....

DATA: .....

Contare in senso progressivo e regressivo e per salti di 2, 5, 10

© Gruppo Editoriale il capitello

Completa le tabelle con i numeri mancanti.

0		2
	4	
6		

	2	
4		
	8	

	1	
3		
6		

	3	
5		7
	9	

	1		3	
5		7		9



				5
	7			10

NOME: .....

COGNOME: .....

DATA: .....

Contare in senso progressivo e regressivo e per salti di 2, 5, 10

© Gruppo Editoriale il capitello

Completa e colora i regoli.



- Il regolo bianco vale 1 .....

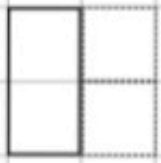

- Il regolo rosso vale ..... regoli bianchi.



- Il regolo verde chiaro vale ..... regoli bianchi.



- Il regolo ciclamino vale ..... regoli bianchi.



- Il regolo giallo vale ..... regoli bianchi.

NOME: .....

COGNOME: .....

DATA: .....

Contare in senso progressivo e regressivo e per salti di 2, 5, 10

© Gruppo Editoriale il capitello

Colora in ordine i regoli dal più lungo e scrivi in ordine decrescente i numeri corrispondenti.



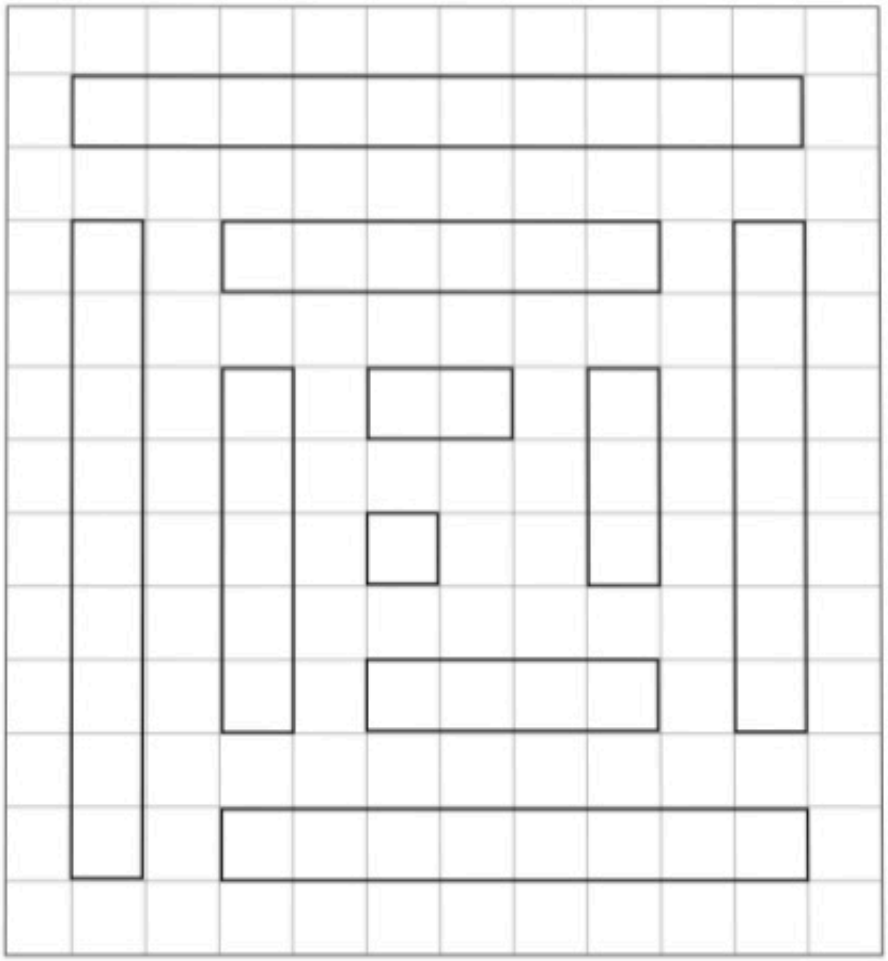

10 ....

....

NOME: .....

COGNOME: .....

DATA: .....

Contare in senso progressivo e regressivo e per salti di 2, 5, 10

© Gruppo Editoriale il capitello

Disegna tanti oggetti quanti ne indica il numero.

8

7

9

10

5

6

NOME: .....

COGNOME: .....

DATA: .....

Contare in senso progressivo e regressivo e per salti di 2, 5, 10

© Gruppo Editoriale il capitello

Colora i vagoni in base alle indicazioni e completa. Segui l'esempio.

- terzo vagone rosso
- primo vagone giallo
- quarto vagone verde
- secondo vagone blu



1°			
.....	.....	.....	.....

Disegna in base alle indicazioni e completa.

- un fiore nel 1° riquadro;
- una banana nel 2° riquadro;
- un palloncino nel 4° riquadro;
- una mela nel 3° riquadro;
- una casetta nel 6° riquadro;
- una bandiera nel 5° riquadro.

.....	.....	.....	4°	.....	.....

NOME: .....

COGNOME: .....

DATA: .....

Confrontare e ordinare raggruppamenti di oggetti e numeri

© Gruppo Editoriale il capitello

Colora in base alle indicazioni.

- Colora 3 mele.

- Colora la terza mela.

- Colora la quinta pera.

- Colora 5 pere.

- Colora 6 fragole..

- Colora la sesta fragola.

- Colora la decima banana.

- Colora 10 banane

NOME: .....

COGNOME: .....

DATA: .....

Confrontare e ordinare raggruppamenti di oggetti e numeri

© Gruppo Editoriale il capitello